proyecto faro

Algar editorial

Cuaderno de problemas 2º

Primaria • Matemáticas

1 **En la tienda de animales del barrio, hay 30 loros, 25 jilgueros y 125 petirrojos. ¿Cuántas aves hay a la venta?**





Datos:

..... loros

..... jilgueros

..... petirrojos

Pregunta: .....

.....

Solución: ..... aves a la venta.

2 **El panadero de La Revuelta ha elaborado esta madrugada 356 panes, de los cuales se han vendido 225. ¿Cuántos faltan por vender?**

Datos:

..... panes ha elaborado

..... panes se han vendido

Pregunta: .....

.....

Solución: ..... panes faltan por vender.

3 **Entre toda la clase hemos traído 24 libros para la biblioteca de aula, y los de 1º del año pasado nos dejaron 20 libros. ¿Cuántos libros tenemos en total?**

Datos:

..... libros que hemos traído

..... libros que quedaban del curso pasado

Pregunta: .....

.....

Solución: ..... libros para la biblioteca de aula.

4 **Una compañía de autobuses organiza excursiones para colegios. En la clase de Pedro han elegido ir a Morella. Saldrán desde Castellón y almorzarán en Albocàsser antes de continuar el viaje.**



Datos:

57 km de Castellón a Albocàsser

53 km de Albocàsser a Morella

..... km de Morella a Castellón

Pregunta: .....

.....

Solución: ..... km recorrerán en total.

5 **Julia es la frutera del mercado central de Bétera. Esta semana ha vendido 140 kilos de plátanos, 231 kilos de manzanas y 126 kilos de peras. ¿Cuántos kilos de fruta ha vendido en total?**



Datos:

..... kg de plátanos

..... kg de manzanas

..... kg de peras

Pregunta: .....

.....

Solución: ..... kg de fruta ha vendido.

6 **Joaquín tiene muchas gallinas en su corral. Hoy han puesto 258 huevos, pero se le han roto 25. ¿Cuántos huevos le han quedado?**

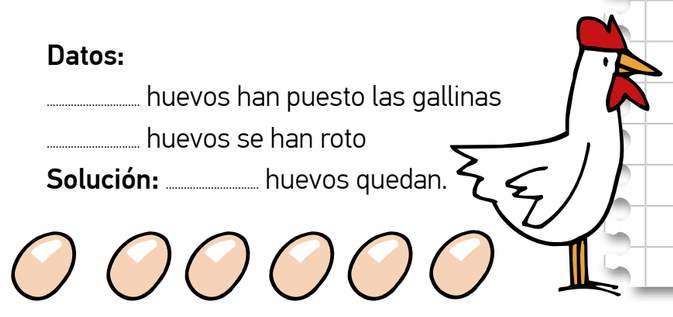

Datos:

..... huevos han puesto las gallinas

..... huevos se han roto

Solución: ..... huevos quedan.

7 **En el aparcamiento del centro comercial había 795 coches cuando hemos llegado, pero según el panel, ahora solamente quedan 300. ¿Cuántos coches se han ido?**

Pregunta: .....

.....

Solución: ..... coches se han ido.

8 **Paula y Andrés, que cumplen años el mismo día, trajeron 32 piruletas y 63 gominolas para repartirlas a la clase. Mañana, Juan y yo cumplimos años, y traeremos 63 piruletas y 32 gominolas. ¿Cuál de los dos días podremos repartir más golosinas?**

Datos:

Paula y Andrés: ..... piruletas y ..... gominolas

Juan y yo: ..... piruletas y ..... gominolas

Pregunta: .....

.....

Solución: .....



9 **En el colegio de Pedro recogen juguetes para una ONG. Han conseguido 89 balones de fútbol y 101 muñecas. En el colegio de su prima María han recogido 101 balones y 89 muñecas. ¿Qué escuela ha conseguido más juguetes?**

Datos:

Colegio de Pedro: ..... balones y ..... muñecas

Colegio de María: ..... muñecas y ..... balones

Solución: .....



10 **Salimos de Alicante hacia Tarragona y recorremos 195 km, paramos a almorzar y recorremos los 251 km que faltan. De regreso, salimos de Tarragona, recorremos 251 km para parar a almorzar en el mismo lugar y continuamos el viaje recorriendo los 195 km que faltan. ¿Qué es más larga, la ida o la vuelta?**

Datos:

Viaje de ida: ..... y ..... km

Viaje de vuelta: ..... y ..... km

Pregunta: .....

.....

Solución: .....

11 **El abuelo de Blas y el de Miguel tienen campos de caquis y granadas. El abuelo de Blas ha cosechado de su campo 50 kg de caquis y 82 kg de granadas, y el de Miguel, 82 kg de caquis y 50 kg de granadas del suyo. ¿Cuál de los dos ha cosechado más kilos de fruta?**

Datos:

Abuelo de Blas: ..... caquis y ..... granadas

Abuelo de Miguel: ..... caquis y ..... granadas

Pregunta: .....

.....

Solución: .....

12 **La señora Paca tiene un manzano que da manzanas dulcísimas. Ha cosechado en total 590, pero 152 estaban picadas por los pájaros. ¿Cuántas están en buen estado?**

Solución: .....